２０１９年度

入学試験問題

（中学第１回午前）

社　会

注　意

1　開始の合図があるまで、問題にふれてはいけません。
2　問題は１０ページ、解答用紙は１枚です。
　はじめに枚数をたしかめなさい。
3　鉛筆（えんぴつ）、消しゴム以外は使ってはいけません。
4　印刷がはっきりしないなど質問があったら、だまって手をあげなさい。
5　終了（しゅうりょう）の合図があったら、すぐに鉛筆をおき、先生の指示に従いなさい。

明　法　中　学　校

【１】次の地形図を見て、あとの問いに答えなさい。

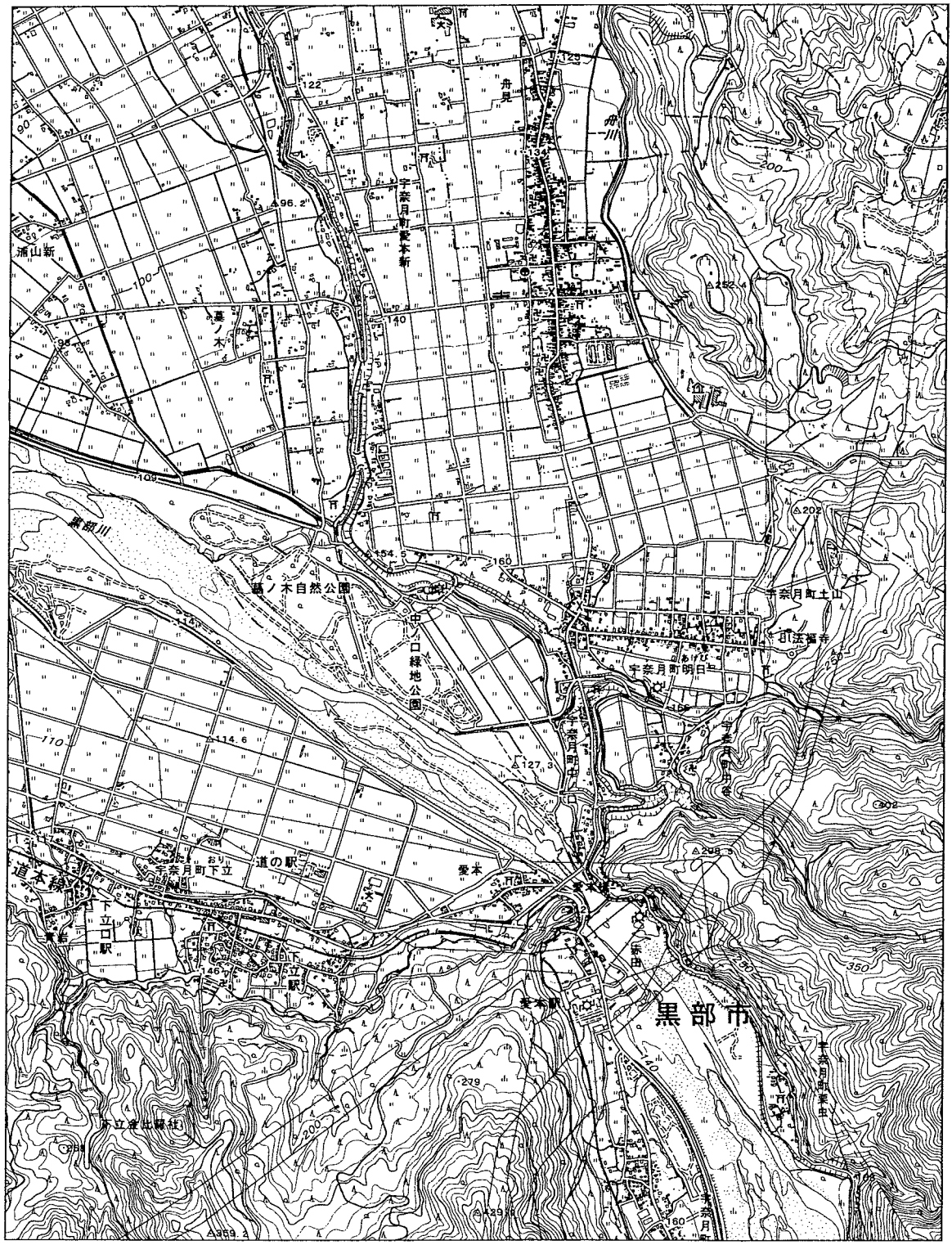

（国土地理院発行２万５千分の１地形図「舟見」より一部引用）

問１　この地形図の範囲には、発電所の地図記号がいくつか見られます。発電所の地図記号を解答らんに正確に書き写しなさい。

問２　この地形図中の「黒部川」にかかっている「愛本橋」から見て、黒部川はどちらの方角に流れていますか。下から一つ選び、記号で答えなさい。

ア．北東　　**イ**．南東　　**ウ**．南西　　**エ**．北西

問３　この地形図中の「富山地方鉄道本線」の「下立口駅」から「下立駅」までは地形図上で約３ｃｍあります。実際の距離は約何ｍになりますか、答えなさい。

問４　この地形図を含む範囲は、扇状地と呼ばれます。よく見ると、扇状地の中央にもかかわらず多くの水田が見られます。水はけの良いはずの扇状地の中央部分に、どうして水田があるのでしょうか。説明としてもっともあてはまるものを下から一つ選び、記号で答えなさい。

ア．黒部川の水が伏流水となって地下を流れ、所々でわき水が多く出るため。
イ．この場所が海に近く、上流から豊富な栄養分を含んだ土砂が堆積するため。
ウ．人工的につくった、ため池にたまった雨水を農業用水として利用しているため。
エ．地下深くからわき出る温泉水を農業用水として利用しているため。

問５　この地形図をふくむ地域は、富山県の一部分です。富山県は「水田単作地帯」が多いことで有名です。水田単作地帯とは、夏場に稲作だけを行い、冬の時期は農作業を行わないことをいいます。富山県で夏場にだけ稲作を行う農業地域が多い理由を、下の雨温図を参考にして簡単に説明しなさい。

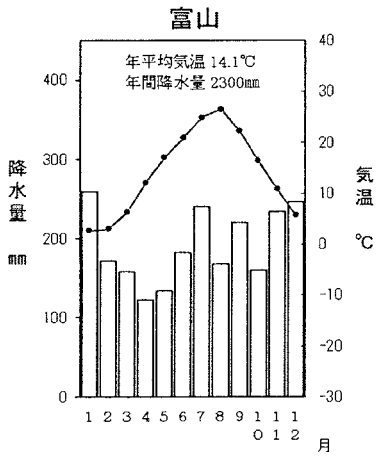

【２】次の地図を見て、あとの問いに答えなさい。

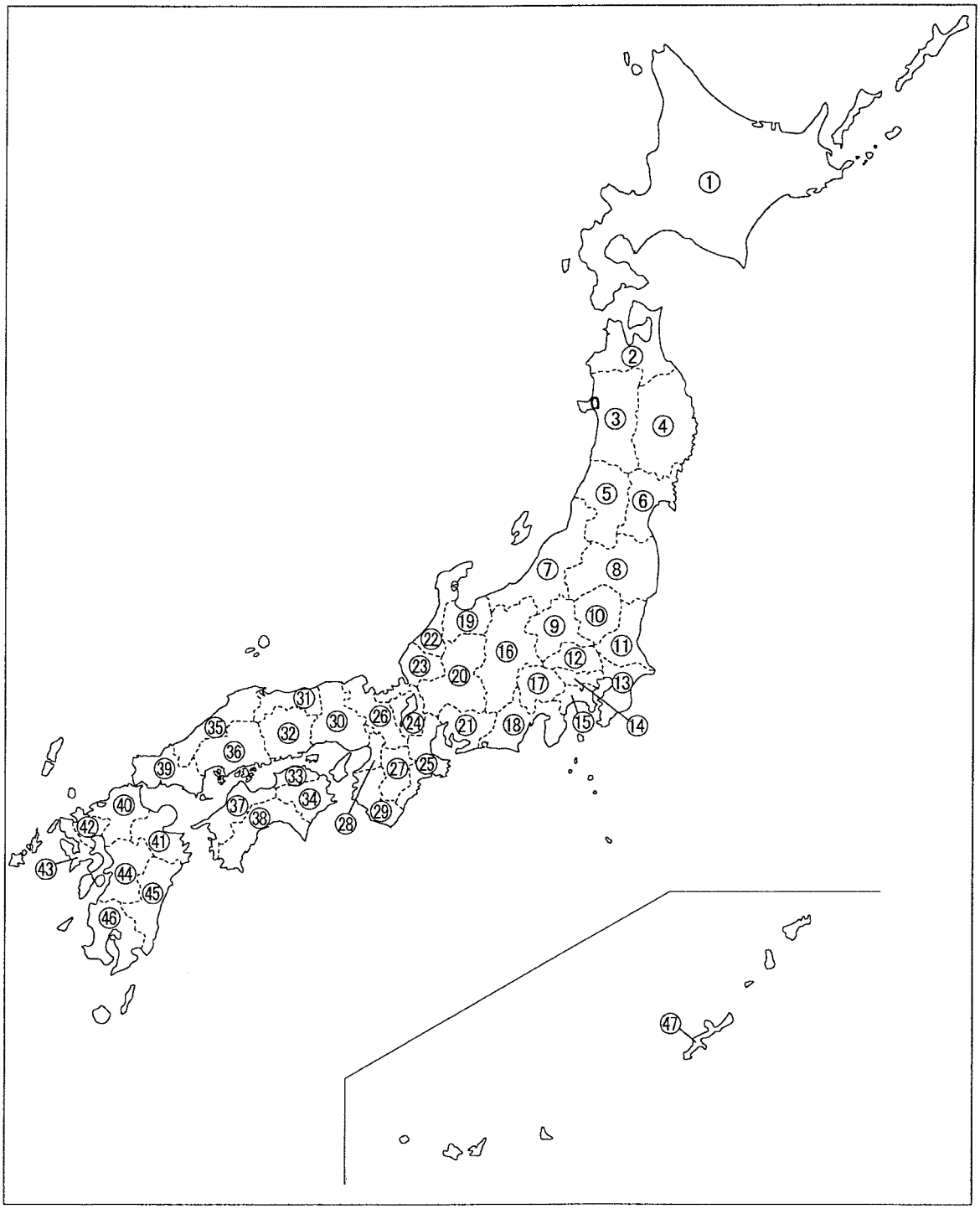

問１　次の表は、おもな農産物の生産量と工業製品の出荷額の上位５県までの都道府県をまとめたものです。これを見て、あとの問いに答えなさい。
(表中の番号と地図中の番号は同じ都道府県を示しています)

	A		B		C	
１位	㉙	173700t	㉑	267100t	㉑	235089 億円
２位	㊲	128500t	⑨	249400t	⑱	42249 億円
３位	⑱	124900t	⑬	128500t	⑮	36856 億円
４位	㊹	94900t	⑪	103800t	⑨	31563 億円
５位	㊸	64400t	⑮	74600t	㊱	27280 億円

(2014 年　農林水産省「作物統計」・経済産業省「工業統計調査」より引用)

Ⅰ．⑨・⑮・⑱の都道府県名を、それぞれ漢字で答えなさい。

Ⅱ．Ａにもっともあてはまる果物を下から一つ選び、記号で答えなさい。

ア．みかん　　**イ**．りんご　　**ウ**．もも　　**エ**．ぶどう

Ⅲ．Ｂにもっともあてはまる農作物を下から一つ選び、記号で答えなさい。

ア．じゃがいも　　**イ**．大豆　　**ウ**．大根　　**エ**．キャベツ

Ⅳ．Ｃにもっともあてはまる工業製品を下から一つ選び、記号で答えなさい。

ア．自動車　　**イ**．船舶　　**ウ**．プラスチック　　**エ**．電子回路

問２　次の説明にあてはまる都道府県を地図中から選び、それぞれ番号で答えなさい。

ア．この都道府県は、全国でもっとも人口が少ない。観光地として有名な砂丘があり、農業では二十世紀なしやすいか、らっきょう等の生産がさかんである。

イ．この県には水はけの良い火山灰からできた土が多く、さつまいもの生産量が全国１位である。また畜産もさかんで、豚の生産量も全国１位となっている。

ウ．日本で最も多くの都道府県ととなりあっている。涼(すず)しい気候を生かした高原野菜の栽培(さいばい)がさかんで、またりんごなどの果樹栽培もさかんである。

【3】日本と海外との外交について先生とA君・B君が話しています。その会話文を読んで、あとの問いに答えなさい。

先生：「二人は海外に行ったことがあるかい？日本の人々は、昔から色々な国々と交流をさかんに行ってきたんだ」

A君：「中国とは2000年も前から交流があったんですよね？推古天皇や聖徳太子の時代には（　1　）が送られているし、(2)平清盛は中国との貿易で大きな利益を上げていたんですよね！」

先生：「そうだね。それに室町幕府の将軍(3)足利義満も中国と正式に国交を結び、やはり貿易で大きな利益を上げたんだ。同じように、戦国時代の大名（　4　）も自治都市だった堺を支配し、(5)ポルトガルやスペインと貿易を行ったんだ。彼は貿易の利益で多くの鉄砲を手に入れ、圧倒的な兵力を手に入れたんだね」

B君：「でも先生、(6)江戸時代は幕末を除いて外国と交流していなかったんですよね！」

先生：「いやいや、そんなことはないんだよ。実は徳川家康は積極的に海外との貿易を進めていたし、江戸時代を通じて、制限はあったものの、しっかりと海外との貿易も行われていたんだ。例えば九州の長崎にある（　7　）にはオランダ人が上陸をゆるされていたんだ」

A君：「そうなんだ。日本人は昔から外国人とたくさん交流してきたんですね。でも明治時代になると戦争ばかりが目に付く気がするな」

先生：「戦争ばかりではないけれど、確かに江戸時代以前よりは外国との戦争が目立つようになってしまったね。明治時代の後半には（　8　）と戦争をし、いずれも日本は勝利しているね。そして、この2つの戦争に勝利したことで、その後（　9　）半島を植民地にすることになったんだ」

B君：「(10)太平洋戦争が終わるまで植民地支配は続いたんですよね。現在でも戦争被害の話はあちこちで聞くし、いつかはなくなって欲しいです」

先生：「先生も、戦争がこの世界からなくなることを願っているよ」

問1　空らん(　1　)に入る言葉を答えなさい。

問2　下線部(2)について、平清盛ら平氏との戦いに勝利し、鎌倉に幕府を開いた人物はだれですか、答えなさい。

問3　下線部(3)について、足利義満についての説明として誤(あやま)っているものを下から一つ選び、記号で答えなさい。

ア．南北朝を統一した。
イ．力をつけた守護大名をおさえ、将軍の力を強めた。
ウ．後醍醐(ごだいご)天皇によって征夷大将軍(せいいたいしょうぐん)に任命された。
エ．京都北山(きたやま)に金閣(きんかく)を建てた。

問4　空らん(　4　)に入る人物はだれですか、答えなさい。

問5　下線部(5)について、ポルトガルやスペインと行った貿易を何貿易といいますか、答えなさい。

問6　下線部(6)について、幕末に日本を開国させたペリーの出身国と、開国した際に結ばれた条約の組み合わせとして正しいものを下から一つ選び、記号で答えなさい。

ア．イギリス―和親条約
イ．イギリス―修好通商条約
ウ．アメリカ―和親条約
エ．アメリカ―修好通商条約

問7　空らん(　7　)に入る語句を答えなさい。

問8　空らん(　8　)には2つの国が入ります。その組み合わせとして正しいものを下から一つ選び、記号で答えなさい。

ア．清・ロシア　　**イ**．明・イギリス　　**ウ**．清・イギリス　　**エ**．明・ロシア

問9　空らん(　9　)に入る言葉を答えなさい。

問 10 下線部(10)について、太平洋戦争に関連する説明として明らかに誤っているものを下から一つ選び、記号で答えなさい。

ア. 日本がハワイの真珠湾(しんじゅわん)を攻撃し、アメリカとの戦争が始まった。
イ. 戦争も後半になると、空襲(くうしゅう)を避けるために集団疎開(そかい)が行われた。
ウ. 1945年の８月、ポーツマスで講和条約が結ばれた。
エ. 沖縄では市民を巻き込む地上戦が行われ、戦後も長い間米軍に占領された。

【４】次の問いに答えなさい。

問１　次のＡ～Ｄは日本国憲法について説明した文です。(　１　)～(　４　)にもっともあてはまる言葉を、下からそれぞれ選び、記号で答えなさい。

Ａ　国民は、すべての基本的人権を持っています。この憲法が国民に保障(ほしょう)している基本的人権は、(　１　) 権利として、現在および将来の国民に与えられます。
Ｂ　集会、結社及び言論、出版その他一切の(　２　) が、憲法により保障されています。
Ｃ　すべての国民は、健康で文化的な(　３　) 生活を営む権利を持っています。
Ｄ　結婚する相手を選ぶこと、(中略) 結婚および家族に関するその他の事に関して、法律は、(　４　) 平等を土台にして、つくられねばならない。

ア．侵(おか)すことのできない永久の　**イ**．憲法により与えられた　**ウ**．平均的な
エ．標準的な　**オ**．最高限度の　**カ**．最低限度の　**キ**．表現の自由
ク．発表の自由　**ケ**．思想の自由　**コ**．個人の尊厳と両性の本質的
サ．個人の尊重と両性の経済的　**シ**．個人の尊厳と両性の社会的
ス．個人の尊重と両性の政治的

問２　次の文から内容に誤りのあるものを二つ選び、記号で答えなさい。

ア．日本の内閣総理大臣は、国会議員の中から国会により選ばれる。
イ．アメリカの大統領は日本の内閣と同様に、議会を解散する権利を持っている。
ウ．最高裁判所の裁判官は内閣が指名し、天皇が任命する。
エ．憲法は、「公務員は全国民の奉仕者」であり、一部の国民の奉仕者ではないとしている。
オ．憲法は、「両議院は、政党を代表する、選挙された議員で組織される」としている。
カ．日本国憲法の改正は国会の発議の後、国民投票において過半数の賛成で成立する。

問３　次の①～②の内容に関連するルールとして、もっともあてはまるものを下から一つ選び、それぞれ記号で答えなさい。

①　知る権利を具体的に実現し、国民が政府を監督できるようにする。
②　病気やけが、その他の事情で働けない人のために「健康で文化的な」生活を保障する。

ア．個人情報保護法　**イ**．情報公開法　**ウ**．特定秘密保護法　**エ**．労働基準法
オ．労働組合法　**カ**．労働関係調整法　**キ**．生活保護法　**ク**．公職選挙法

【５】次の文を読んで、あとの問いに答えなさい。

アメリカのトランプ大統領は2017年６月１日、地球温暖化対策の国際的枠組み「（　１　）協定」からアメリカが離脱すると発表しました。その中で、同協定は同国の経済と雇用にダメージを与えると主張しました。協定からの離脱は前年の大統領選挙での公約通りです。

（　１　）協定は2015年12月にアメリカを含む195カ国が合意。（　２　）前アメリカ大統領は2025年までに地球温暖化ガスの排出量を2005年に比べて26～28％減らすと発表していました。

問１　文中の（　１　）にはヨーロッパにある国の首都名が入ります。それはどこですか、答えなさい。

問２　文中（　２　）の「前アメリカ大統領」は2016年、伊勢志摩サミット出席後、安倍晋三内閣総理大臣とともに、現職の大統領として初めて日本の「被爆地」の平和記念公園を訪問しました。
この「前大統領」の名前と「被爆地」の都市名を答えなさい。

問３　地球温暖化ガスの排出量を減らす努力として、あてはまらないものを下から一つ選び、記号で答えなさい。

ア．お店などで買い物をする場合、買い物袋を持参したり、簡易な包装の品を選ぶ。
イ．通勤の交通手段として、自家用車の利用回数を減らして、電車やバスを利用する。
ウ．テレビの利用を減らしたり、利用していない部屋の照明を消したりする。
エ．外国で生産された値段の安い食料品を購入するよう心がける。
オ．植林ボランティアなどに積極的に参加する。

【６】次の文を読んで、あとの問いに答えなさい。

昨年の 11 月、アメリカで「中間選挙」といわれる議会選挙が行われました。これにはトランプ大統領の任期前半の政治の信任を問う意味がありました。結果は、下院では野党・民主党が８年ぶりに過半数を奪い返しました。一方で、上院は与党・共和党が選挙前と同様に過半数を守り、上下院で多数派が異なる「ねじれ議会」となりました。トランプ氏はこれまで通り「アメリカ第一」主義の政策を進めるとみられますが、下院と対立することになりそうです。

問　上の文章では、大統領と下院の「対立」、議会での上院と下院の「対立」が指摘されています。しかし、民主主義の視点に立った場合、この「ねじれ」の状況は「対立」とは異なる別の見方、考え方もできます。その見方、考え方とはどのようなものですか。簡単に説明しなさい。